Zahlenstrahl 1 LÖSUNG

(Für mehr Nachhaltigkeit: Vergleicht die Lösungen am Bildschirm und druckt diese nicht aus.)

1. Zeichne ein und rechne aus.

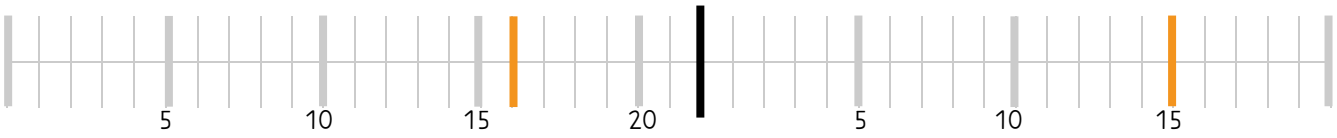

9 + 7 = 16 6 + 9 = 15

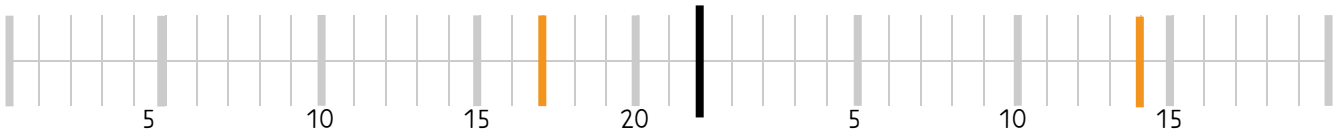

9 + 8 = 17 5 + 9 = 14

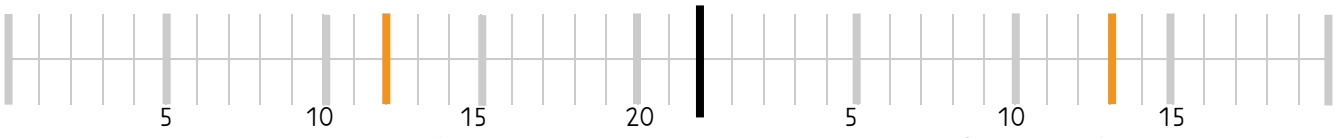

7 + 5 = 12 6 + 7 = 13

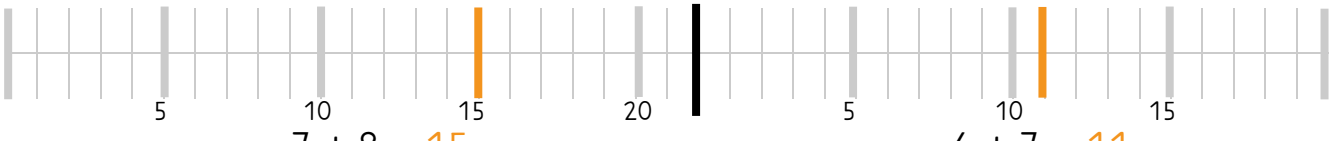

7 + 8 = 15 4 + 7 = 11

2. Berechne die Sachaufgabe.

Tobias kauft zwölf Äpfel und noch drei Birnen. Wie viel Stück ergeben die Äpfel und Birnen zusammen?

				1	2	+		3	=		1	5

Antwort: Zusammen ergeben die Äpfel und Birnen 15 Stück.

© www.grundschulkoenig.de