# Zahlenstrahl 2

1. Zeichne ein und rechne aus.

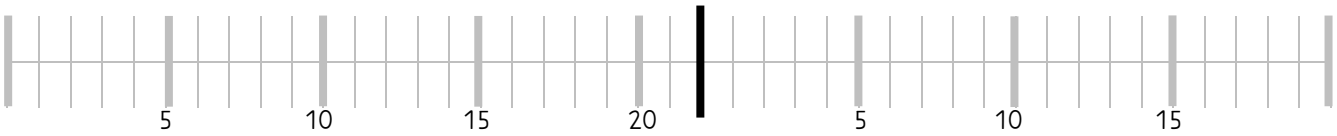


5 + 6 = _____ 6 + 5 = _____

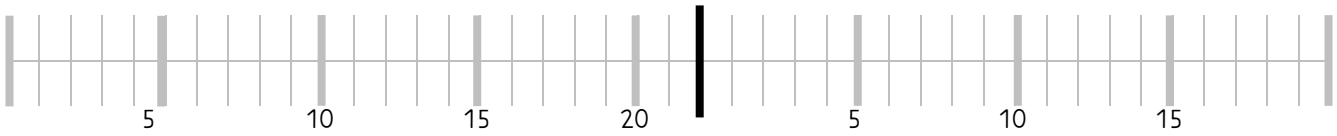


5 + 7 = _____ 7 + 5 = _____

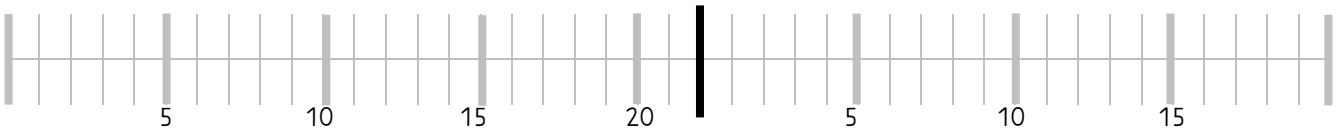


5 + 8 = _____ 8 + 5 = _____

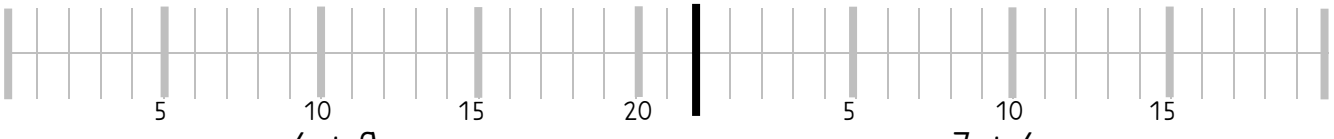


4 + 9 = _____ 7 + 4 = _____

2. Berechne die Sachaufgabe.

Selina kauft acht Bananen und noch fünf Äpfel. Wie viel Stück ergeben die Bananen und Äpfel zusammen?

Antwort: _____

© www.grundschulkoenig.de