Addition und Subtraktion 7 (Lösung)

1 Was fällt dir auf?

71 – 30 = 41	11 + 15 = 26	75 – 30 = 45
61 – 30 = 31	21 + 15 = 36	75 – 40 = 35
51 – 30 = 21	31 + 15 = 46	75 – 50 = 25
41 – 30 = 11	41 + 15 = 56	75 – 60 = 15

2 Berechne das Ergebnis!

78 – 29 = 49	66 – 8 = 58	47 – 18 = 29
39 + 59 = 98	77 – 58 = 19	93 – 86 = 7
78 – 59 = 19	65 – 26 = 39	85 – 47 = 38
84 – 46 = 38	34 – 26 = 8	14 – 6 = 8
75 + 6 = 81	54 + 33 = 87	63 + 25 = 88
65 + 24 = 89	43 + 26 = 69	56 + 31 = 87
46 + 17 = 63	19 + 35 = 54	44 + 46 = 90
48 – 29 = 19	76 – 57 = 19	33 – 15 = 18

3 Größer [>], kleiner [<] oder gleich [=]? Setze die Zeichen richtig ein!

14 + 56 [=] 21 + 49	8 + 7 [=] 6 + 9	78 + 11 [=] 80 + 9
7 + 25 [=] 21 + 11	19 + 33 [>] 30 + 5	46 + 9 [>] 5 +48
5 + 9 [=] 13 + 1	13 + 85 [=] 30 + 68	38 + 59 [>] 60 +31
41 + 45 [>] 36 + 31	78 + 16 [<] 90 + 5	67 + 33 [=] 95 + 5
90 + 10 [>] 8 + 70	45 + 6 [=] 47 + 4	56 + 8 [=] 45 +19

© www.grundschulkoenig.de

Plus mit Zehnerübergang 6 (Lösung)

Rechne aus

75 + 6 = 81	54 + 33 = 87	63 + 25 = 88
65 + 24 = 89	43 + 26 = 69	56 + 13 = 69
46 + 17 = 63	19 + 35 = 54	44 + 46 = 90
24 + 7 = 31	75 + 20 = 95	29 + 29 = 58
31 + 44 = 75	28 + 8 = 36	45 + 27 = 72
14 + 35 = 49	35 + 44 = 79	32 + 64 = 96
25 + 52 = 77	57 + 10 = 67	24 + 23 = 47
43 + 37 = 80	58 + 12 = 70	49 + 11 = 60
11 + 13 = 24	45 + 23 = 68	43 + 50 = 93
19 + 71 = 90	71 + 21 = 92	92 + 7 = 99
36 + 63 = 99	45 + 23 = 68	16 + 84 = 100
54 + 23 = 77	62 + 23 = 85	34 + 55 = 89

© www.grundschulkoenig.de

Plus mit Zehnerübergang 7 (Lösung)

Rechne aus

35 + 6 = 41	51 + 33 = 84	63 + 35 = 100
65 + 35 = 100	53 + 36 = 89	56 + 13 = 69
56 + 17 = 73	19 + 35 = 54	55 + 56 = 111
35 + 7 = 42	75 + 30 = 105	39 + 39 = 78
31 + 65 = 96	38 + 7 = 45	55 + 37 = 92
15 + 35 = 50	35 + 55 = 90	33 + 65 = 98
85 + 53 = 138	57 + 10 = 67	35 + 33 = 68
53 + 37 = 90	59 + 13 = 72	59 + 11 = 70
11 + 13 = 24	55 + 12 = 67	63 + 50 = 113
19 + 71 = 90	71 + 31 = 102	93 + 7 = 100
36 + 63 = 99	55 + 33 = 88	16 + 75 = 91
55 + 33 = 88	63 + 33 = 96	35 + 54 = 89

© www.grundschulkoenig.de

Euro und Cent 7 (Lösung)

Wie viel Geld ist das?

	21 Euro (€) und 25 Cent (ct)
	2 Euro (€) und 23 Cent (ct)
	57 Euro (€) und 30 Cent (ct)
	11 Euro (€) und 0 Cent (ct)
	2 Euro (€) und 55 Cent (ct)

© www.grundschulkoenig.de

1x1: 7er Aufgaben (Lösung)

1 Mal und Geteilt: Welche Zahl gehört in die Lücken?

1 · 7 = 7

8 · 7 = 56

2 · 7 = 14

3 · 7 = 21

5 · 7 = 35

6 · 7 = 42

42 : 7 = 6

49 : 7 = 7

2 · 7 = 14

6 · 7 = 42

7 · 7 = 49

70 : 7 = 10

8 · 7 = 56

9 · 7 = 63

21 : 7 = 3

28 : 7 = 4

2 Einmaleins in Tabellen: Rechne aus!

* 7	4	6	8	5	3	7	9	10	2	1
	28	42	56	35	21	49	63	70	14	7

: 7	35	14	49	21	63	28	42	70	56	7
	5	2	7	3	9	4	6	10	8	1

© www.grundschulkoenig.de

Minus mit Zehnerübergang 7 (Lösung)

Berechne.

75 – 42 = 33	64 – 47 = 17	25 – 17 = 8
65 – 47 = 18	54 – 43 = 11	90 – 37 = 53
89 – 23 = 66	72 – 28 = 44	78 – 69 = 9
23 – 17 = 6	68 – 55 = 7	66 – 40 = 26

68 – 27 = 41	35 – 27 = 8	66 – 57 = 9
39 – 27 = 12	76 – 58 = 18	49 – 28 = 21
64 – 59 = 5	55 – 44 = 11	21 – 13 = 8
87 – 79 = 8	34 – 27 = 7	69 – 20 = 49

55 – 41 = 14	85 – 17 = 68	69 – 37 = 32
34 – 27 = 7	73 – 54 = 19	93 – 43 = 50
58 – 41 = 17	99 – 31 = 68	47 – 36 = 11
31 – 19 = 12	87 – 62 = 25	86 – 83 = 3

© www.grundschulkoenig.de

Rechendreiecke 1 (Lösung)

Vervollständige die Dreiecke!

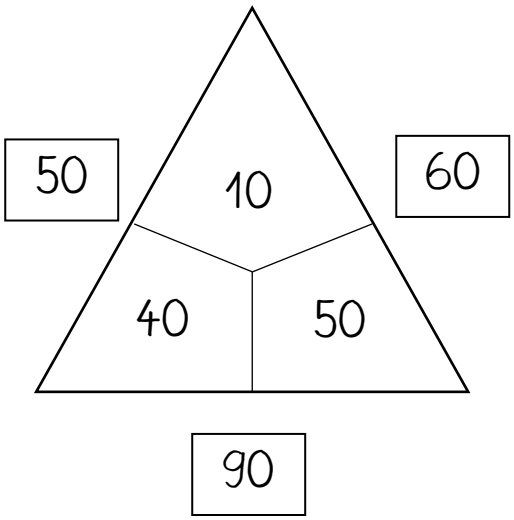

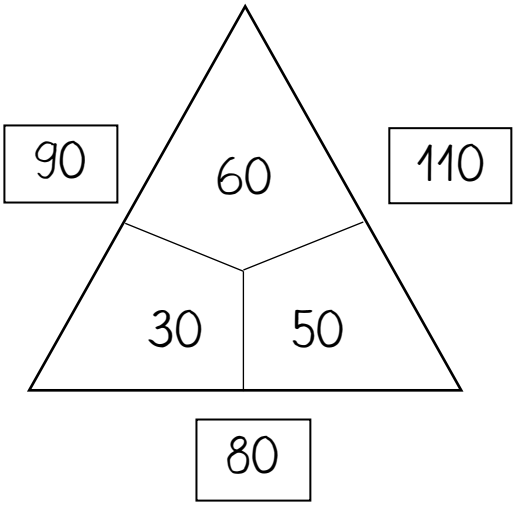

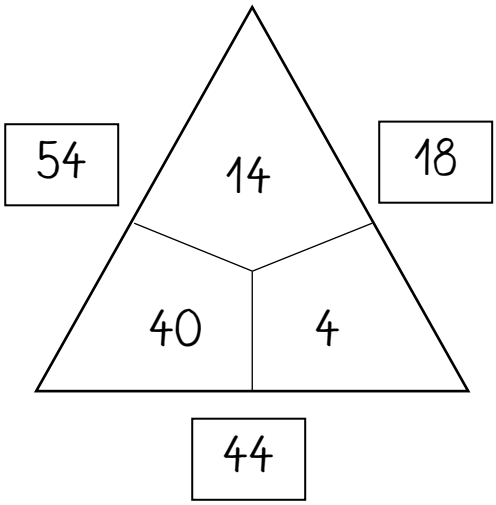

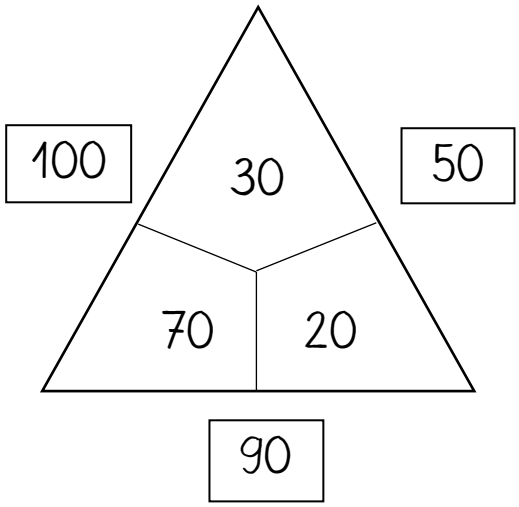

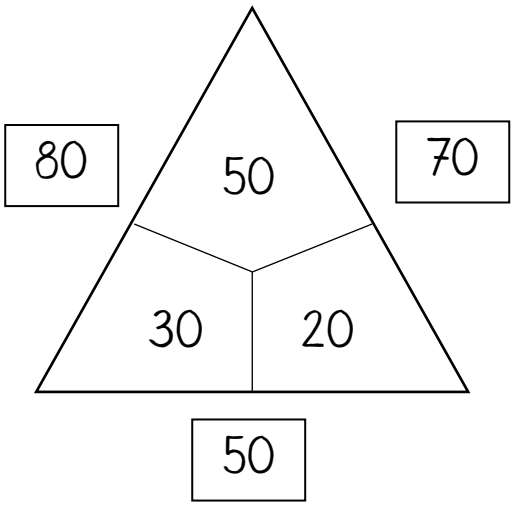

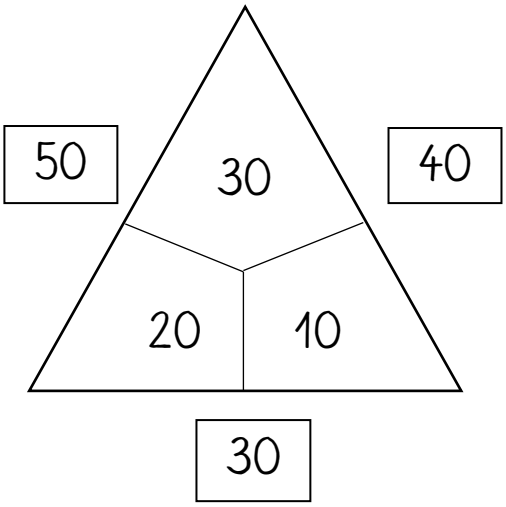

© www.grundschulkoenig.de

Rechenschlange 2 (Lösung)

Welche Zahlen fehlen? Ergänze. Start und Ziel ist jeweils im doppelt umrandeten Kästchen.

10	· 7	70	−10	60	: 6	10	+20	30
10	· 2	20	−7	13	· 2	26	+24	40
20	−3	17	· 2	34	−5	29	+21	50
30	−3	27	· 2	54	−4	50	−10	40
40	+6	46	−4	42	+7	49	+21	70
50	· 1	50	+3	53	+4	57	+23	80

© www.grundschulkoenig.de

Sachaufgaben 7 (Lösung)



Schreibe eine Antwort!

Am Kiosk im Freibad wurden gestern 34 Wassereis und 57 Milcheis verkauft. Wie viele Eis wurden insgesamt verkauft?

34 + 57 = 81

Antwort: Es wurden am Kiosk insgesamt 81 Eis verkauft.

Bauer Huber besitzt 89 Stalltiere. Davon sind 56 Kühe. Wie viele Schweine besitzt er?

89 – 56 = 33

Antwort: Bauer Huber besitzt 33 Schweine.

Micha ist 9. Seine Cousine ist 15 Jahre älter als er. Sein Cousin 19 Jahre älter. Wie alt sind die beiden?

9 + 15 = 24 9 + 19 = 28

Antwort: Michas Cousine ist 24 und sein Cousin 19 Jahre alt.

Bauer Huber hat 6 Kühe, einen Hahn, 9 Hühner, 4 Schweine, 2 Katzen und einen Hund. Wie viele Beine haben alle Tiere zusammen?

6 x 4 + 1 x 2 + 9 x 2 + 4 x 4 + 2 x 4 + 1 x 4 =

24 + 2 + 18 + 16 + 8 + 4 = 72

Antwort: Alle Tiere zusammen besitzen 72 Beine.

© www.grundschulkoenig.de

1x1: Text- und Sachaufgaben 2 (Lösung)

Schreibe jeweils die Frage, die Rechnung und die Antwort auf:

Leni kauft 5 Tüten Semmeln. In jeder Tüte sind 6 Semmeln.

Frage: Wie viele Semmeln hat Leni gekauft?

Rechnung: 5 x 6 = 30

Antwort: Leni hat 30 Semmeln gekauft.

Maxi bekommt 8 Päckchen Fussballkarten zum Geburtstag. In jedem Päckchen sind 5 Karten.

Frage: Wie viele Karten hat Maxi geschenkt bekommen?

Rechnung: 8 x 5 = 40

Antwort: Maxi hat 40 Karten geschenkt bekommen.

Frau Müller richtet jeden Morgen 6 Pausenbrote her. Jedes Kind bekommt 2 Brote.

Frage: Wie viele Kinder hat Frau Müller.

Rechnung: 6 : 2 = 3

Antwort: Frau Müller hat 3 Kinder.

Lukas schießt doppelt so viele Tore wie Jakob. Jakob schießt 8 Tore.

Frage: Wie viele Tore schießt Lukas?

Rechnung: 8 x 2 = 16

Antwort: Lukas schießt 16 Tore.

© www.grundschulkoenig.de